CE1

mardi, 17 septembre 2013

problèmes

1 ► Carole achète 9 cartes postales.
Elle doit mettre un timbre
sur chaque carte postale.
Mais elle n'a que 3 timbres.

Combien lui manque-t-il de timbres ?

Il lui manque 6 timbres.

3 + 6 = 9 ou 9 - 3 = 6

---

2 ► Monsieur Romani fait des courses.
Il dépense 18 € chez l'épicier
et 10 € chez le boucher.

Combien dépense-t-il en tout ?

Il dépense 28 € en tout.



18 + 10 = 28 €

---

3 ► Une tablette de chocolat coûte 3 €.
Madame Benoît achète 4 tablettes.

Combien doit-elle payer ?

Elle doit payer 12 €

3 + 3 + 3 + 3 = 12 €

---

4 ► Dans un parking,
il y a 6 rangées de 10 places.

Combien y a-t-il de places dans ce parking ?

Il y a 60 places dans ce parking



10+10+10+10+10+10 = 60

---

5 ► Dans sa tirelire, Majid n'a que
des pièces de 2 €. En tout, il a 8 €.

Combien a-t-il de pièces de 2 € ?

Il a 4 pièces de 2 €



2 + 2 + 2 + 2 = 8 €

---

6 ► Dans sa tirelire